学習プリント

地理「果樹栽培と水産業における人々の工夫や努力」

年　　組　　番

名前

1．果樹栽培における農家の人々の工夫

(1)　資料Ⅰに示された果物のうち、次の表にあてはまる果物とその主な産地を読み取ってみよう。

生産量が最も多い果物	果物	
	主な産地	
一つの県の生産量の割合が最も高い果物	果物	
	主な産地	

(2)　資料Ⅱから、りんごとさくらんぼ・桃の産地の特色をまとめてみよう。

りんご	さくらんぼ・桃

(3)　山形県でさくらんぼの栽培が盛んな理由を、資料Ⅲを参考にそれぞれの観点からまとめてみよう。

自然環境	
人々の工夫や努力	
交通網	

資料Ⅰ　主な果物の生産量



資料Ⅱ　東北地方の土地利用と主な農水産物

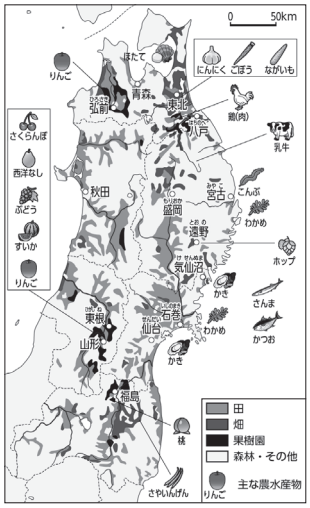

資料Ⅲ　山形盆地の果樹栽培

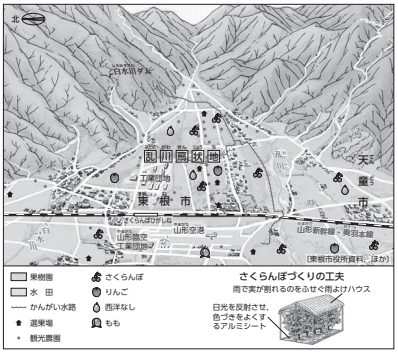

2．生活に根ざした水産業の営み

(1)　次の❶～❹にあてはまる語句を記入し、太平洋側で漁業が盛んな理由をまとめてみよう。

水揚げ量が多い理由	三陸海岸の沖合いには、寒流の（❶　　）と暖流の（❷　　）が出会う（❸　　）は魚が集まる豊かな漁場になっている。
養殖業が盛んな理由	（❹　　）が続く三陸海岸の入り江や、青森県の陸奥湾は、波が穏やかで、養殖に適している。

(2)　東北地方で水揚げ量が多い主な漁港を挙げてみよう。

本時のまとめ　◆　東北地方の果樹栽培農家にみられる生産の工夫について、説明しよう。