学習プリント

地理「他地域と結び付いて発展する産業」

年　　組　　番

名前

1．自然環境を生かした農業

(1)　資料Ⅰを見て、オーストラリアの牛と羊の分布の特色を、降水量との関わりを考えてみよう。

資料Ⅰ　牛と羊の分布

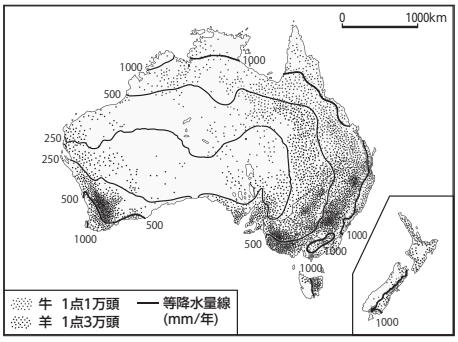

(2)　資料Ⅱから気付いたニュージーランドのかぼちゃの特色とその理由を考えてみよう。

資料Ⅱ　東京の卸売市場で取り扱われるかぼちゃの産地

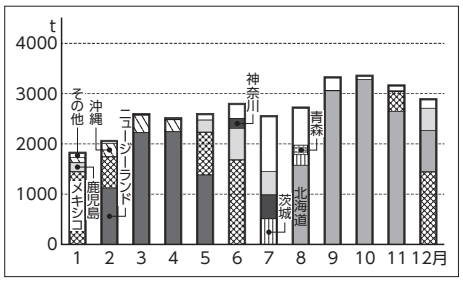

2．鉱産資源の輸出が盛んなオーストラリア

(1)　資料Ⅲを見て、主な鉱産資源が採掘されている地域とその輸出先をまとめてみよう。

鉱産資源	採掘されている地域	主な輸出先
鉄鉱石		
石炭		
ボーキサイト		

資料Ⅲ　鉱産資源の分布

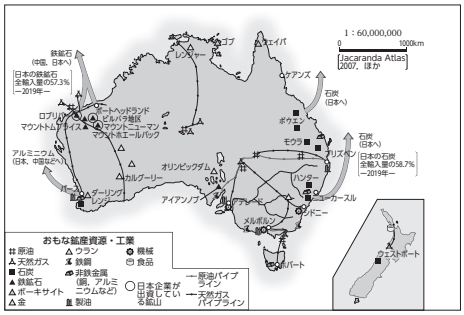

(2)　オーストラリアで行われている、地表を削って掘り下げる鉱産資源の採掘方法を何といいますか。

3．アジアとの結び付きを強めるオーストラリア

オーストラリアの貿易相手国の変化について、資料Ⅳから分かることを書いてみよう。

資料Ⅳ　オーストラリアの貿易相手国の変化

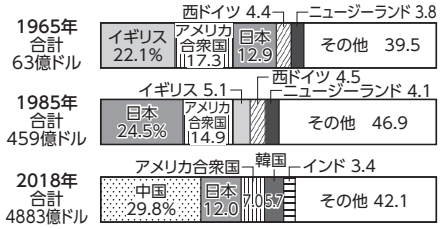

本時のまとめ　◆　オセアニアとアジアの結び付きが強まってきた理由について説明しよう。